Единый государственный экзамен
по МАТЕМАТИКЕ

Базовый уровень

Инструкция по выполнению работы

Экзаменационная работа включает в себя 21 задание.

На выполнение работы отводится 3 часа (180 минут).

Ответы к заданиям записываются по приведённым ниже образцам в виде числа или последовательности цифр. Сначала запишите ответы к заданиям в поле ответа в тексте работы, а затем перенесите их в бланк ответов № 1 справа от номера соответствующего задания.

КИМ Ответ: -0,8. 10 -0,8 Бланк

Если ответом является последовательность цифр, как в приведённом ниже примере, то запишите эту последовательность в бланк ответов № 1 без пробелов, запятых и других дополнительных символов.

КИМ Бланк

Ответ:

А	Б	В	Г
4	3	1	2

9 4312

Все бланки ЕГЭ заполняются яркими чёрными чернилами. Допускается использование гелевой или капиллярной ручки.

При выполнении заданий можно пользоваться черновиком. **Записи в черновике, а также в тексте контрольных измерительных материалов не учитываются при оценивании работы.**

Баллы, полученные Вами за выполненные задания, суммируются. Постарайтесь выполнить как можно больше заданий и набрать наибольшее количество баллов.

После завершения работы проверьте, что ответ на каждое задание в бланках ответов №1 был записан под правильным номером.

Желаем успеха!

Составитель: Школа Пифагора

Справочные материалы

Алгебра

Таблица квадратов целых чисел от 0 до 99

Десятки	Единицы									
	0	1	2	3	4	5	6	7	8	9
0	0	1	4	9	16	25	36	49	64	81
1	100	121	144	169	196	225	256	289	324	361
2	400	441	484	529	576	625	676	729	784	841
3	900	961	1024	1089	1156	1225	1296	1369	1444	1521
4	1600	1681	1764	1849	1936	2025	2116	2209	2304	2401
5	2500	2601	2704	2809	2916	3025	3136	3249	3364	3481
6	3600	3721	3844	3969	4096	4225	4356	4489	4624	4761
7	4900	5041	5184	5329	5476	5625	5776	5929	6084	6241
8	6400	6561	6724	6889	7056	7225	7396	7569	7744	7921
9	8100	8281	8464	8649	8836	9025	9216	9409	9604	9801

Свойства арифметического квадратного корня

$\sqrt{ab}=\sqrt{a}\cdot\sqrt{b}$ при $a\geq 0,\ b\geq 0$ $\qquad$ $\sqrt{\frac{a}{b}}=\frac{\sqrt{a}}{\sqrt{b}}$ при $a\geq 0,\ b>0$

Корни квадратного уравнения $ax^2+bx+c=0,\ a\neq 0$

$x_1=\frac{-b-\sqrt{b^2-4ac}}{2a},\quad x_2=\frac{-b+\sqrt{b^2-4ac}}{2a}$ при $b^2-4ac>0$

$x=-\frac{b}{2a}$ при $b^2-4ac=0$

Формулы сокращенного умножения

$$(a+b)^2=a^2+2ab+b^2$$
$$(a-b)^2=a^2-2ab+b^2$$
$$a^2-b^2=(a+b)(a-b)$$

ТРЕНИРОВОЧНЫЙ КИМ № 17

Степень и логарифм

Свойства степени
при $a>0$, $b>0$

$a^{-n}=\frac{1}{a^n}$

$a^n\cdot a^m=a^{n+m}$

$\frac{a^n}{a^m}=a^{n-m}$

$(a^n)^m=a^{nm}$

$(ab)^n=a^n\cdot b^n$

$\left(\frac{a}{b}\right)^n=\frac{a^n}{b^n}$

Свойства логарифма
при $a>0$, $a\neq 1$, $b>0$, $x>0$, $y>0$

$a^{\log_a b}=b$

$\log_a a=1$

$\log_a 1=0$

$\log_a(xy)=\log_a x+\log_a y$

$\log_a\left(\frac{x}{y}\right)=\log_a x-\log_a y$

$\log_a b^k=k\log_a b$

Геометрия

Средняя линия треугольника и трапеции

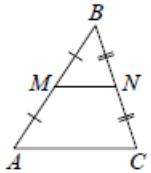

MN — ср. лин.
$MN \parallel AC$

$MN=\frac{AC}{2}$

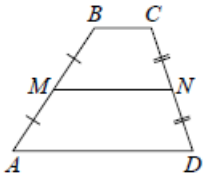

$BC \parallel AD$
MN — ср. лин.
$MN \parallel AD$

$MN=\frac{BC+AD}{2}$

Теорема Пифагора

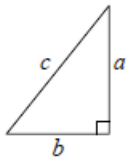

$a^2+b^2=c^2$

Длина окружности $C=2\pi r$

Площадь круга $S=\pi r^2$

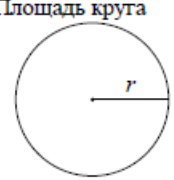

Правильный треугольник

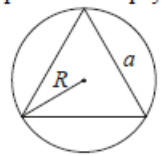

$R=\frac{a\sqrt{3}}{3}$

$S=\frac{a^2\sqrt{3}}{4}$

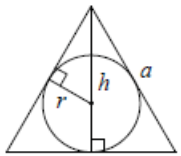

$r=\frac{a\sqrt{3}}{6}$

$h=\frac{a\sqrt{3}}{2}$

Площади фигур

Параллелограмм

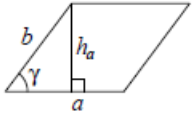

$S=ah_a$

$S=ab\sin\gamma$

Треугольник

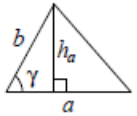

$S=\frac{1}{2}ah_a$

$S=\frac{1}{2}ab\sin\gamma$

Трапеция

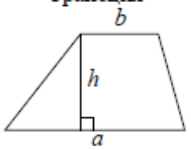

$S=\frac{a+b}{2}\cdot h$

Ромб

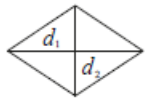

d_1, d_2 – диагонали

$S=\frac{1}{2}d_1d_2$

Площади поверхностей и объёмы тел

Прямоугольный параллелепипед

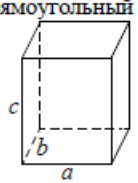

$V=abc$

Прямая призма

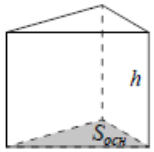

$V=S_{осн}h$

Пирамида

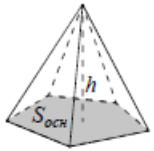

$V=\frac{1}{3}S_{осн}h$

Конус

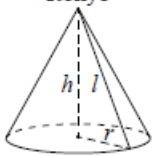

$V=\frac{1}{3}\pi r^2h$

$S_{бок}=\pi rl$

Цилиндр

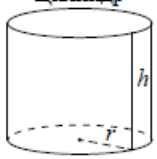

$V=\pi r^2h$

$S_{бок}=2\pi rh$

Шар

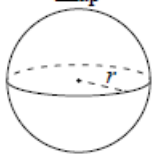

$V=\frac{4}{3}\pi r^3$

$S=4\pi r^2$

Тригонометрические функции

Прямоугольный треугольник

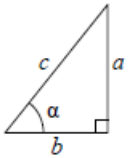

$\sin\alpha = \frac{a}{c}$

$\cos\alpha = \frac{b}{c}$

$\operatorname{tg}\alpha = \frac{a}{b}$

Тригонометрическая окружность

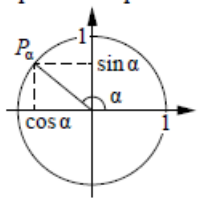

Основное тригонометрическое тождество: $\sin^2\alpha + \cos^2\alpha = 1$

Некоторые значения тригонометрических функций

α									
	радианы	0	$\frac{\pi}{6}$	$\frac{\pi}{4}$	$\frac{\pi}{3}$	$\frac{\pi}{2}$	π	$\frac{3\pi}{2}$	2π
	градусы	0°	30°	45°	60°	90°	180°	270°	360°
$\sin\alpha$		0	$\frac{1}{2}$	$\frac{\sqrt{2}}{2}$	$\frac{\sqrt{3}}{2}$	1	0	–1	0
$\cos\alpha$		1	$\frac{\sqrt{3}}{2}$	$\frac{\sqrt{2}}{2}$	$\frac{1}{2}$	0	–1	0	1
$\operatorname{tg}\alpha$		0	$\frac{\sqrt{3}}{3}$	1	$\sqrt{3}$	—	0	—	0

Функции

Линейная функция

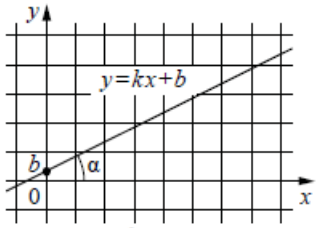

$k = \operatorname{tg}\alpha$

Геометрический смысл производной

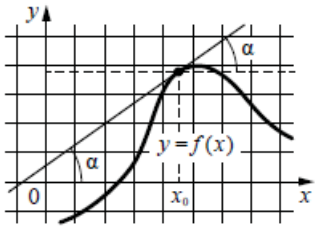

$f'(x_0) = \operatorname{tg}\alpha$

Ответом к каждому заданию является конечная десятичная дробь, или целое число, или последовательность цифр. Ответ сначала запишите в поле ответа в тексте работы, а затем перенесите в БЛАНК ОТВЕТОВ № 1 справа от номера соответствующего задания. Каждую цифру, знак «минус» и запятую пишите в отдельной клеточке в соответствии с приведёнными в бланке образцами. Единицы измерений писать не нужно.

1 В летнем лагере 249 детей и 28 воспитателей. В одном автобусе можно перевозить не более 45 пассажиров. Какое наименьшее количество таких автобусов понадобится, чтобы за один раз перевезти всех из лагеря в город?

Ответ: _____.

2 Установите соответствие между величинами и их возможными значениями: к каждому элементу первого столбца подберите соответствующий элемент из второго столбца.

ВЕЛИЧИНЫ	**ЗНАЧЕНИЯ**
А) объём ящика с яблоками	1) 108 л
Б) объём воды в озере Ханка	2) 900 м^3
В) объём бутылки соевого соуса	3) 0,2 л
Г) объём бассейна в спорткомплексе	4) 18,3 км^3

В таблице под каждой буквой, соответствующей величине, укажите номер её возможного значения.

Ответ:

А	Б	В	Г

3 На рисунке жирными точками показана цена платины, установленная Центробанком РФ во все рабочие дни в октябре 2010 года. По горизонтали указываются числа месяца, по вертикали – цена платины в рублях за грамм. Для наглядности жирные точки на рисунке соединены линиями. Определите по рисунку, какого числа цена платины была наименьшей за указанный период.

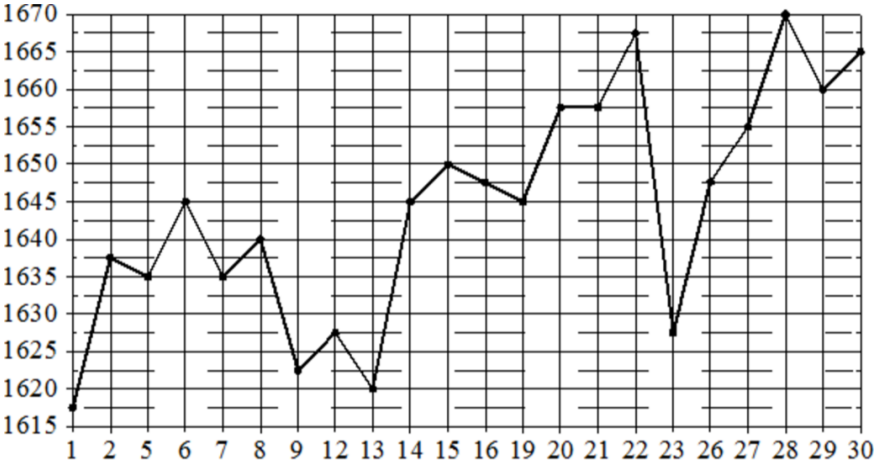

Ответ: _____.

4 Радиус окружности, описанной около треугольника, можно вычислить по формуле $R = \frac{a}{2\sin\alpha}$, где a – сторона, а α – противолежащий ей угол треугольника. Пользуясь этой формулой, найдите R, если $a = 10$ и $\sin\alpha = \frac{1}{3}$.

Ответ: _____.

5 В соревнованиях по толканию ядра участвуют 9 спортсменов из Дании, 3 спортсмена из Швеции, 8 спортсменов из Норвегии и 5 – из Финляндии. Порядок, в котором выступают спортсмены, определяется жребием. Найдите вероятность того, что спортсмен, выступающий последним, окажется из Финляндии.

Ответ: _____.

6 В городском парке имеется пять аттракционов: карусель, колесо обозрения, автодром, «Ромашка» и «Весёлый тир». В кассах продаётся шесть видов билетов, каждый из которых позволяет посетить один или два аттракциона. Сведения о стоимости билетов представлены в таблице.

Номер билета	Набор аттракционов	Стоимость (руб.)
1	«Весёлый тир», автодром	300
2	Колесо обозрения, «Весёлый тир»	400
3	Автодром, «Ромашка»	400
4	Колесо обозрения	150
5	Карусель, «Ромашка»	300
6	Карусель, колесо обозрения	350

Какие билеты должен купить Андрей, чтобы посетить все пять аттракционов и затратить не более 750 рублей?

В ответе укажите какой-нибудь один набор номеров билетов без пробелов, запятых и других дополнительных символов.

Ответ: _____.

7 На рисунке точками показаны объёмы месячных продаж холодильников в магазине бытовой техники. По горизонтали указываются месяцы, по вертикали – количество проданных холодильников. Для наглядности точки соединены линией.

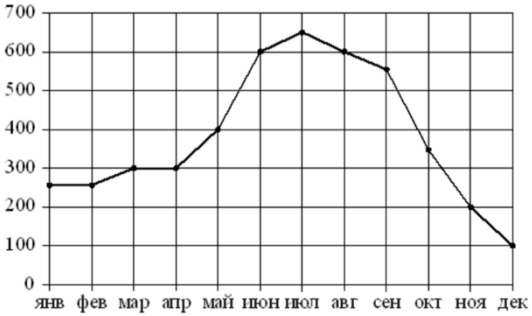

Пользуясь рисунком, поставьте в соответствие каждому из указанных периодов времени характеристику продаж холодильников.

ПЕРИОДЫ ВРЕМЕНИ	**ХАРАКТЕРИСТИКИ**
А) январь-март	1) продажи за первый и второй месяцы квартала совпадают
Б) апрель-июнь	2) ежемесячный объём продаж достигает максимума за весь период
В) июль-сентябрь	3) за этот период ежемесячный объём продаж увеличился на 300 холодильников
Г) октябрь-декабрь	4) за последний месяц периода было продано меньше 200 холодильников

В таблице под каждой буквой укажите соответствующий номер.

Ответ:

А	Б	В	Г

8 Хозяйка к празднику купила морс, мороженое, крабовые палочки и рыбу. Мороженое стоило дороже крабовых палочек, но дешевле рыбы, морс стоил дешевле мороженого. Выберите утверждения, которые верны при указанных условиях.

1) Морс стоил дешевле рыбы.
2) За морс заплатили больше, чем за мороженное.
3) Рыба – самая дорогая из покупок.
4) Среди указанных четырёх покупок есть три, стоимость которых одинакова.

В ответе запишите номера выбранных утверждений без пробелов, запятых и других дополнительных символов.

Ответ: _____.

9 План местности разбит на клетки. Каждая клетка обозначает квадрат 1 м × 1 м. Найдите площадь участка, выделенного на плане. Ответ дайте в квадратных метрах.

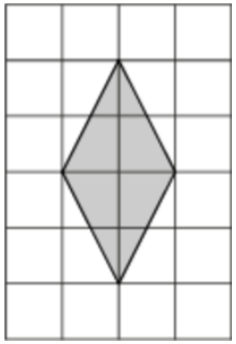

Ответ: _____.

10 Данный участок имеет форму прямоугольника, стороны которого равны 30 м и 20 м. Дом, расположенный на участке, имеет на плане форму квадрата со стороной 6 м. Найдите площадь оставшейся части участка, не занятой домом. Ответ дайте в квадратных метрах.

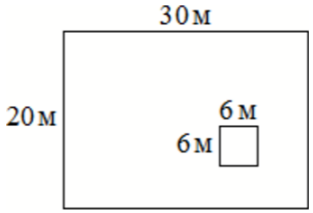

Ответ: _____.

11 В сосуде, имеющем форму конуса, уровень жидкости достигает $\frac{1}{2}$ высоты. Объём сосуда 1600 мл. Чему равен объём налитой жидкости? Ответ дайте в миллилитрах.

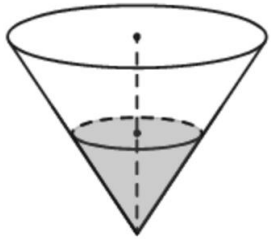

Ответ: _____.

12 В треугольнике ABC угол C равен $90°$, $AB = 15$, $\sin A = 0{,}6$. Найдите AC.

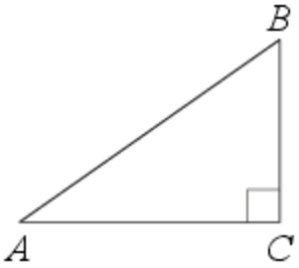

Ответ: _____.

13 Даны два шара с радиусами 8 и 2. Во сколько раз объём большего шара больше объёма другого?

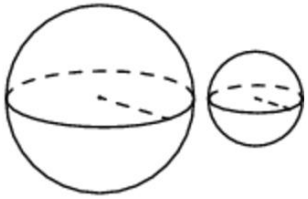

Ответ: _____.

14 Найдите значение выражения

$$\frac{1}{\frac{1}{5}-\frac{1}{30}}.$$

Ответ: _____.

15 В начале учебного года в школе было 600 учащихся, а к концу года их стало 630. На сколько процентов увеличилось за учебный год число учащихся?

Ответ: _____.

16 Найдите значение выражения

$$\frac{(4^{-4})^2}{4^{-10}}.$$

Ответ: _____.

17 Найдите корень уравнения

$$(x-8)^2 = (x-2)^2.$$

Ответ: _____.

18 Каждому из четырёх неравенств в левом столбце соответствует одно из решений в правом столбце. Установите соответствие между неравенствами и их решениями.

НЕРАВЕНСТВА	**РЕШЕНИЯ**
А) $2^x \geq 2$	1) $(-\infty; -1]$
Б) $0{,}5^x \geq 2$	2) $(-\infty; 1]$
В) $0{,}5^x \leq 2$	3) $[1; +\infty)$
Г) $2^x \leq 2$	4) $[-1; +\infty)$

Впишите в приведённую в ответе таблицу под каждой буквой соответствующий решению номер.

Ответ:

А	Б	В	Г

19 Найдите пятизначное число, кратное 25, любые две соседние цифры которого отличаются на 2. В ответе укажите какое-нибудь одно такое число.

Ответ: _____.

20 Поезд, двигаясь равномерно со скоростью 50 км/ч, проезжает мимо придорожного столба за 72 секунды. Найдите длину поезда в метрах.

Ответ: _____.

21 Хозяин договорился с рабочими, что они выкопают ему колодец на следующих условиях: за первый метр он заплатит им 4200 рублей, а за каждый следующий метр – на 1300 рублей больше, чем за предыдущий. Сколько рублей хозяин должен будет заплатить рабочим, если они выкопают колодец глубиной 11 метров?

Ответ: _____.

Не забудьте перенести все ответы в бланк ответов № 1 в соответствии с инструкцией по выполнению работы.
Проверьте, чтобы каждый ответ был записан в строке с номером соответствующего задания.

СОСТАВИТЕЛЬ ВАРИАНТА:	
ФИО:	Евгений Пифагор
Предмет:	Математика
Стаж:	14 лет готовлю к ЕГЭ и ОГЭ
Регалии:	Набрал 100 баллов на ЕГЭ по математике (профиль) Результаты моих учеников Высшее образование – ТГУ (Тольятти), 2009-2014 Победитель трёх олимпиад по высшей математике
ВК:	https://vk.com/shkolapifagora
Ютуб:	https://www.youtube.com/c/pifagor1

ТРЕНИРОВОЧНЫЙ КИМ № 17

Система оценивания экзаменационной работы по математике (базовый уровень)

Правильное решение каждого из заданий 1–21 оценивается 1 баллом. Задание считается выполненным верно, если ответ записан в той форме, которая указана в инструкции по выполнению задания, и полностью совпадает с эталоном ответа.

Номер задания	Правильный ответ	Текстовое решение	Видео решение
1	7		
2	1432		
3	1		
4	15		
5	0,2		
6	145		
7	1324		
8	13		
9	4		
10	564		
11	200		
12	12		
13	64		
14	6		
15	5		
16	16		
17	5		
18	3142		
19	97975 или 57975 или 97575 или 57575 или 53575 или 13575		
20	1000		
21	117700		

ТРЕНИРОВОЧНЫЙ КИМ № 17